Nome: .....

Data: .....

VIRGOLE DAPPERTUTTO

Trova ed evidenzia i numeri decimali nei seguenti oggetti.

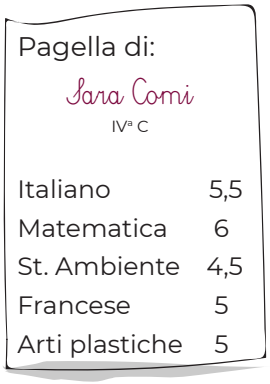





Immagina di avere a disposizione dei foglietti su cui sono rappresentati i seguenti simboli.

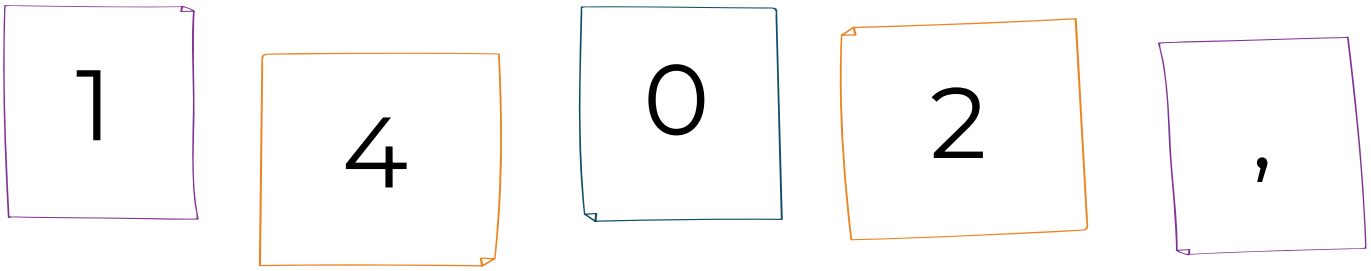

- Qual è il numero maggiore che potresti comporre accostando tutti i foglietti?

- Qual è il numero minore che potresti comporre usando tutti i foglietti?

- Qual è il numero minore che potresti comporre usando tre foglietti?

- Quali numeri compresi fra 40 e 50 potresti comporre usando tutti i foglietti?

© MaMa - DECS - Divisione della scuola