Nome: .....

Data: .....

I NUMERI EGIZI 3

Il faraone Menes è diventato leggendario per aver conquistato e unificato territori dell'Alto e Basso Egitto. Possedeva 400'000 buoi, 120'000 schiavi e 1'422'000 capre. Qui sotto vedi rappresentati questi numeri con i simboli utilizzati nell'Antico Egitto.
Individua il valore di ogni simbolo, scrivendolo a fianco.

400'000 buoi	120'000 schiavi	1'422'000 capre
	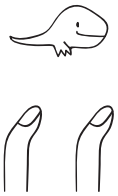	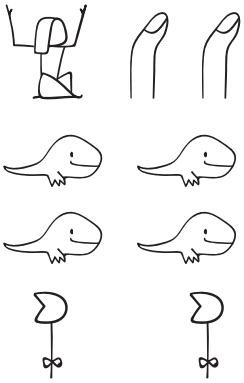

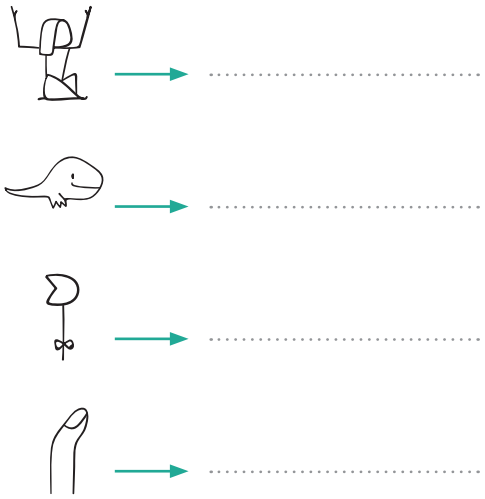

Ora completa il resto dell'inventario del faraone rappresentando i numeri di tutti e tre i beni sia nel nostro sistema sia con quello egizio.

987'000 gatti	2'545'000 vasi	..... pavoni
		
		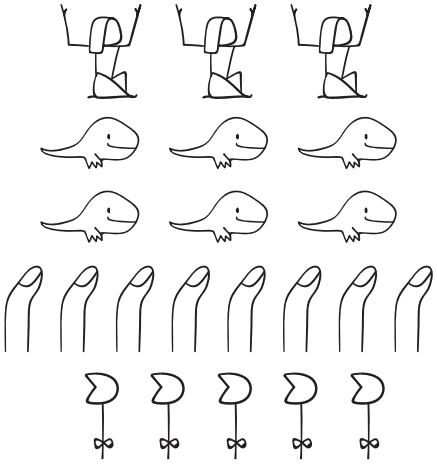

© MaMa - DECS - Divisione della scuola